География

6 класс

Изменения в назначении ВПР-2022

В характеристике целей убрали формулировку — «*... проводятся с учетом национально-культурной и языковой специфики многонационального российского общества...*».

Изменения в процедуре ВПР-2022

1. Сократили общее количество заданий. Теперь их 9, а не 10.
2. Уменьшили общий балл за работу. Теперь он 33, а не 37.
3. Сократили время выполнения работы. Теперь оно 45, а не 60 минут.

Изменения в содержании ВПР-2022

1. Исключили задания с развернутым ответом.
2. Убрали задания на проверку знаний географии родного края.
3. Включили задания с выбором ответа.

Рекомендации, чтобы включить в уроки сложные задания на ВПР

№ задания в КИМ	Умение, которое проверяет ВПР	Какие задания включить в уроки
1	Работать с географической картой *New* Использовать различные источники географической информации, чтобы решать учебные и учебно-практические задачи	1. Определять по карте пути великих путешественников. **Пример задания** Стрелками какого цвета обозначен маршрут экспедиции Васко де Гама? 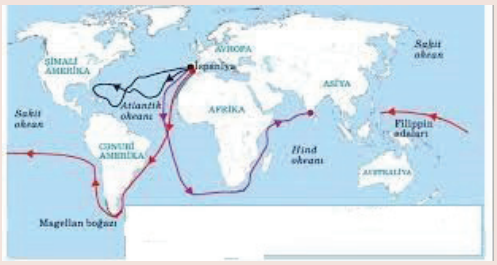 2. Определять географические объекты на карте. **Пример задания** Какой цифрой на рисунке обозначен материк, открытый позднее остальных? 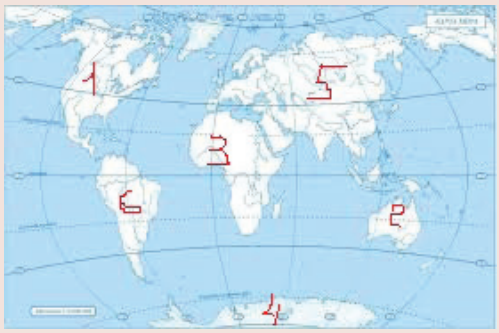

№ задания в КИМ	Умение, которое проверяет ВПР	Какие задания включить в уроки
		❸ Находить соответствие между личностью путешественника и его открытиями. **Пример задания** 1. Годы жизни: А) 1354—1424; Б) 1451—1506; В) 1562—1614. 2. Что открыл: А) Америку; Б) путь в Индию; В) первое кругосветное путешествие. 3. Его именем не называется: А) страна в Южной Америке; Б) аэропорт в Лондоне; В) киностудия в Голливуде.
2	Работать с географической картой, обозначать на карте точки по координатам и определять направления	❶ Определять географическую широту и долготу по глобусу и карте. Определять объекты по их географическим координатам. **Пример задания** 1. Какие координаты имеет точка, обозначенная буквой А на карте? А) 40 с. ш. и 60 в. д.; Б) 40 ю. ш. и 60 в. д.; В) 40 с. ш. и 60 з. д.; Г) 40 ю. ш. и 60 з. д. 2. Какому направлению соответствует точка С на карте? 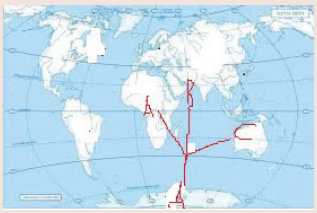 А) север; Б) северо-запад; В) северо-восток; Г) восток.
7	Владеть понятийным аппаратом географии и навыками смыслового чтения	❶ Работать с географическими текстами. Изучать определения и термины по географии. **Пример задания** *Прочитайте текст. По каким предложениям можно рассказать о том, как меняются свойства атмосферного воздуха с высотой? Перечислите номера этих предложений.* (1) Атмосфера — воздушная оболочка Земли. (2) Она имеет несколько слоев. (3) У поверхности Земли расположена тропосфера. (4) Она содержит в себе 80% воздуха атмосферы. (5) Ее называют кухней погоды, потому что именно здесь образуются воздушные потоки и различные облака. (6) Температура в тропосфере с высотой понижается. (7) Над тропосферой расположен озоновый слой, а над ним стратосфера. (8) В отличие от тропосферы, в стратосфере температура с высотой повышается. (9) Еще выше расположены и другие слои атмосферы, в которых тоже происходят изменения температуры и влажности воздуха, а также его плотности. (10) Чем выше, тем воздух более разряженный.